R7 UTPC

制限時間：50分

問題数：19問

No.	パズル	点数
1.	カテナク	25
2.	LITS	25
3.	推理クロス	80
4.	これは何です	60
5.	約束の輪	55
6.	アンチエルパネル	20
7.	方向音痴ヤジリン	35
8.	ヘルゴルフ	10
9.	Hayeweka	55
10.	Regional Akari	15
11.	インストラクションレス	50
12.	キラー数コロ改	70
13.	よみどおり	20
14.	チマタグラム	5+5+5+5+5+5
	合計	550

座席	名前(ハンドルネーム)	点数

1. カテナク

ルール
・タテヨコの各列にそれぞれ1から列の長さまでの数字を1つずつ入れます。
・線でつながれた丸同士にもそれぞれ1から列の長さまでの数字が入ります。
※交差している線は互いにつながらず直進します。

例題

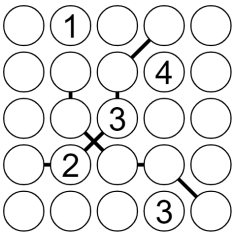

例題解答



①25点

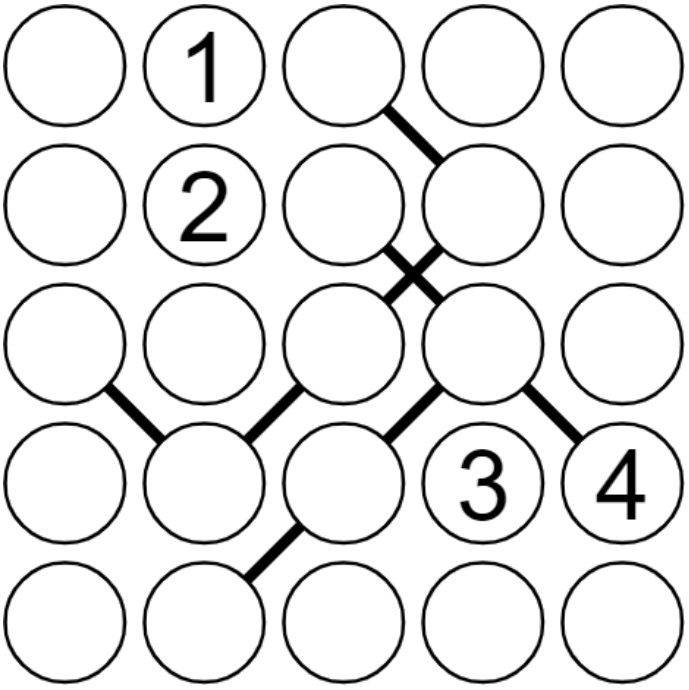

2. LITS

ルール

・盤面に黒マスを配置して、太線で区切られたブロックにそれぞれテトロミノ (黒マスが4つつながった形) を1つずつ作ります。
・同じ形 (回転・反転した形を含む) のテトロミノは隣接しません。
・黒マスはタテヨコにひとつながりになりますが、2×2以上のカタマリになってはいけません。

例題



例題解答



①25点

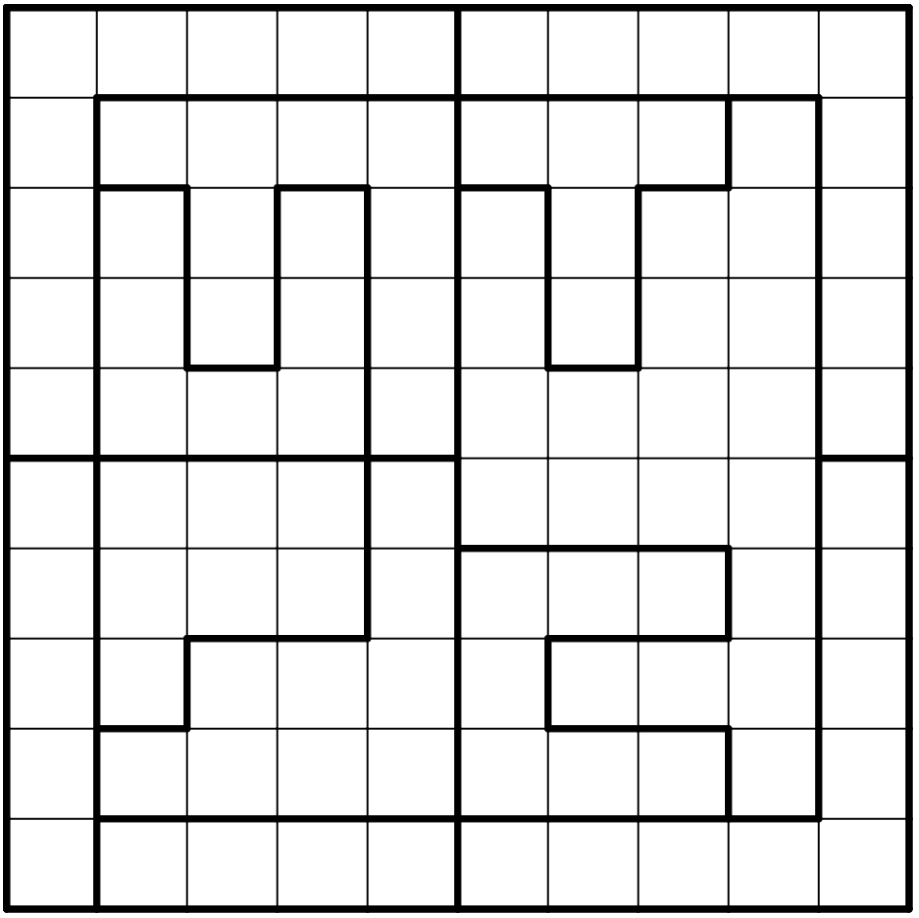

3. 推理クロス

ルール

・ヒントに従い、全ての白マスにカタカナもしくは黒マスを入れてクロスワードの盤面を作ります。
・黒マスもしくは外周で挟まれた2文字以上のカタカナが言葉になります。
・「ン」「ー」で始まる言葉を作ってはいけません。
・「ンン」「ンー」「ーー」の文字列を言葉の中に作ってはいけません。
・同じ言葉を複数個作ってはいけません。
・黒マスがタテヨコに隣り合ったり、盤面を分断してはいけません。

例題

	A	B	C	D	E
1					
2					
3					
4					
5					

(ヒントは割愛)

例題解答

	A	B	C	D	E
1	カ	ブ	ト	ム	シ
2	シ	ユ	ン	ジ	■
3	ミ	■	ボ	■	バ
4	ア	リ	■	ジ	ツ
5	■	ク	ワ	ガ	タ

①80点

	A	B	C	D	E	F	G	H	I	J
1										
2										
3										
4										
5										
6										
7										
8										
9										
10										

ヒント

・Dに入る「ミカンセイ」は「モジユミネ」と交差する。
・8に入る「セレンデイピテイ」は「ウイロウセラー」と交差する。
・Aに黒マスが4つ、Gに黒マスが4つ、2に黒マスが2つ入る。
・Fに「ランブルナイト」が入る。
・Hに「イイ」、「タテイト」が入る。
・7に「ナナ」が入る。
・「ネコ」はヨコに入る。
・盤面に「イ」が17つ入る。
・どこかに「ダンマクヨオーイ」、「トウケンランブ」、「シユツケ」、「セトウチ」、「メロデイ」、「ターン」、「モツト」、「オレ」、「シト」、「ツカ」、「ネギ」、「メモ」、「リン」、「ルカ」、「レン」が入る。

4. これは何です

ルール

・盤面のすべてのマスに、1以上の整数と上下左右いずれかの向きの矢印を1つずつ入れます。
・数字は、矢印の方向にある数字の種類数を表します。
・太線で区切られた各ブロックには、すべて同じ矢印がついた互いに異なる数字か、すべて異なる矢印がついた同じ数字かのどちらかが入ります。
・あらかじめ入っている記号を書き換えてはいけません。

例題

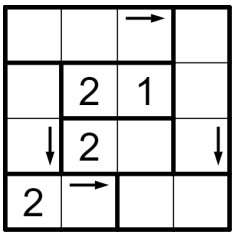

例題解答

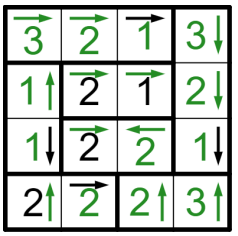

①60点

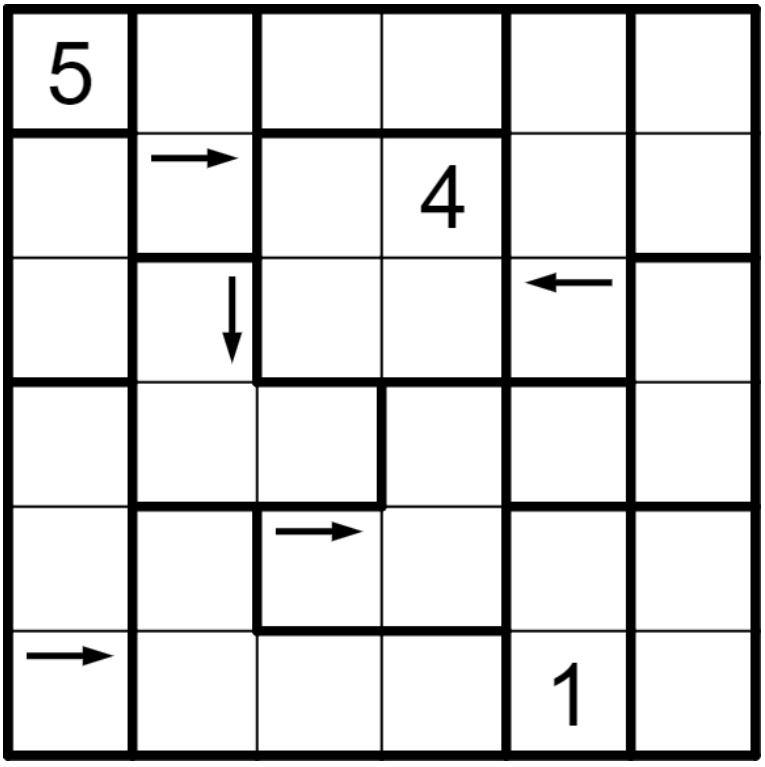

5. 約束の輪

ルール

・マスの中央を通る線を引き、交差も枝分かれもしない1つの輪を作ります。
・太線で区切られた色付きのマス目をブロックといい、ブロックのうち必ず1マス以上には線が引かれます。形と向きが同じブロックでは、線の通り方も同じになります。（回転や反転によって重なるブロック同士は同じになるとは限りません）

例題

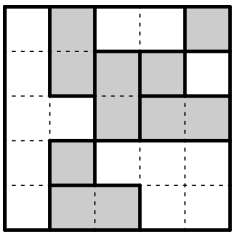

例題解答

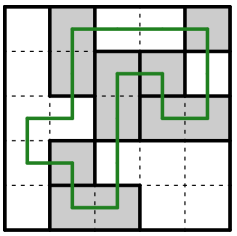

①55点

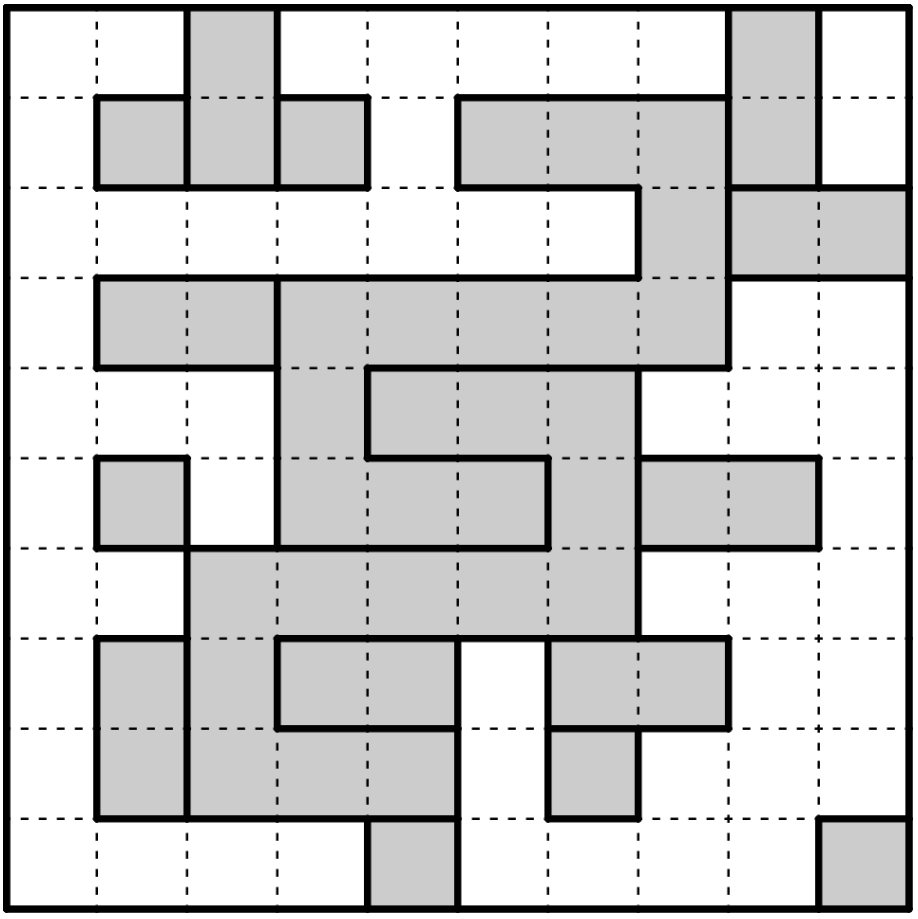

6. アンチエルパネル

ルール
・点線に沿って線を引き、盤面の全ての白マスを4マスごとのブロックに分割します。
・ブロックはL字型になってはいけません。

例題



例題解答

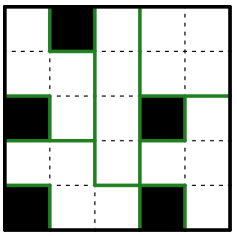

①20点



7. 方向音痴ヤジリン

ルール

・マスの中央を通る線を引き、交差も枝分かれもしない1つの輪を作ります。線が通らず数字もないマスは黒マスになります。黒マス同士が隣接してはいけません。
・数字は盤面内側の上下左右いずれか一方向にある黒マスの個数を表します。その個数の黒マスがある方向は複数あってもかまいません。

例題

1					0
			0		
		2			
1					2

例題解答

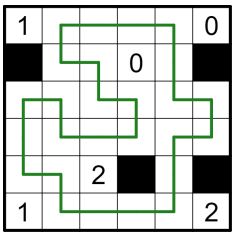

①35点

1									1
		3					3		
					1		1	1	
					1				
	2	2		2					
		3					2		
0									0

8. ヘルゴルフ

ルール

・白い丸で表された球を何回か移動させて、ゴールであるHのマスまで運びます。
・白丸の移動はマス目の中央を通る矢印で表します。
・白丸は、1回の移動で上下左右いずれかの方向にまっすぐ、白丸の中の数字の分だけ移動できます。移動が終わると白丸の中の数字を1減らして、また同じように移動できます。
・数字が0になった球、Hの場所に移動した球はそれ以上移動できません。
・矢印同士が重なってはいけません。また、Hや他の白丸の上を通過したり、終点が灰色のマス (OB) や盤面の外になるような移動をしたりしてはいけません。

例題

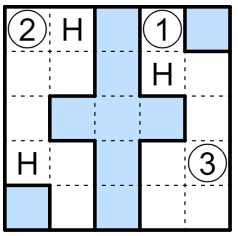

例題解答

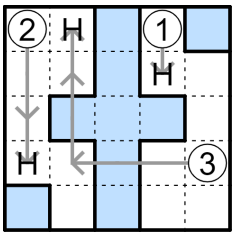

①10点

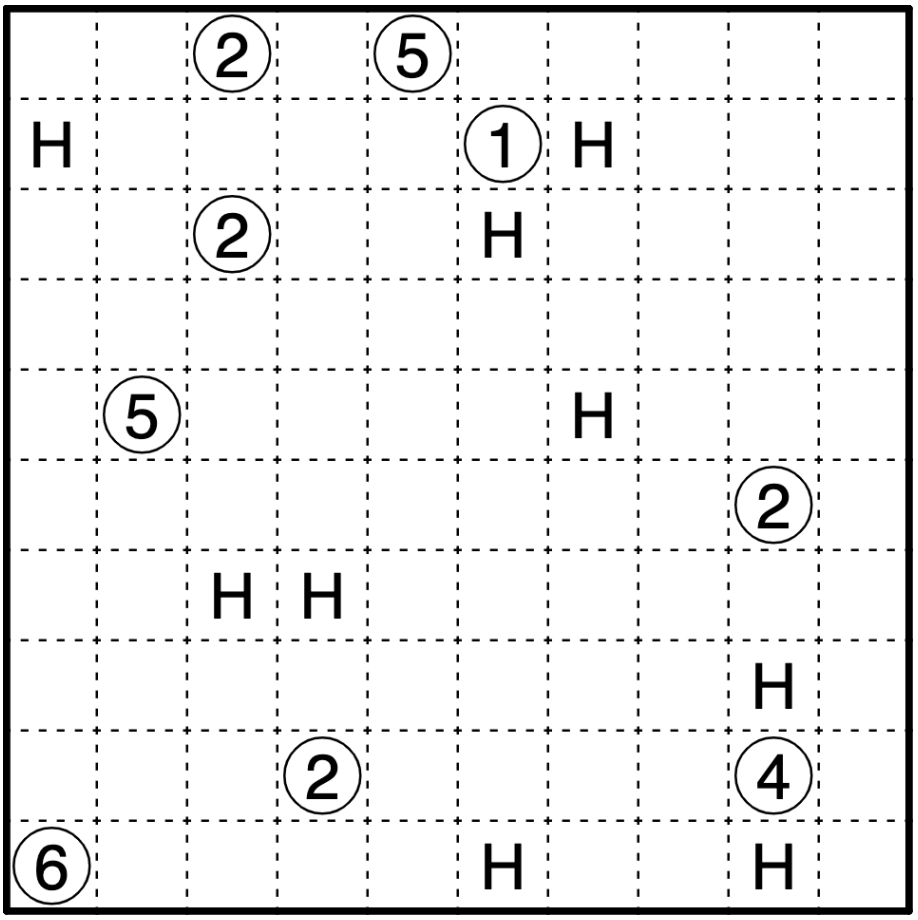

9. Hayeweka

ルール

・盤面のいくつかのマスを黒マスにします。
・黒マスは、必ず1×2のカタマリになります。このカタマリどうしが辺で接してはいけません。
・ 太線で区切られた領域に入っている数字は、その領域以外に入る黒マスの数を表しています。
・ 数字のマスは必ず白マスになります。
・ 白マスは、タテヨコどちらの方向に対しても2つ以上の部屋にわたって連続して存在していなければなりません (部屋をまたがず、黒マスや壁に挟まれた白マスが存在してはいけません)。
・ 黒マスによって、盤面が丁度2つに分断されていなければなりません。

例題

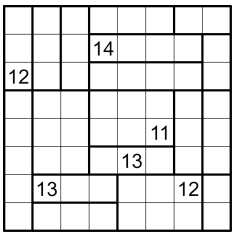

例題解答



①55点

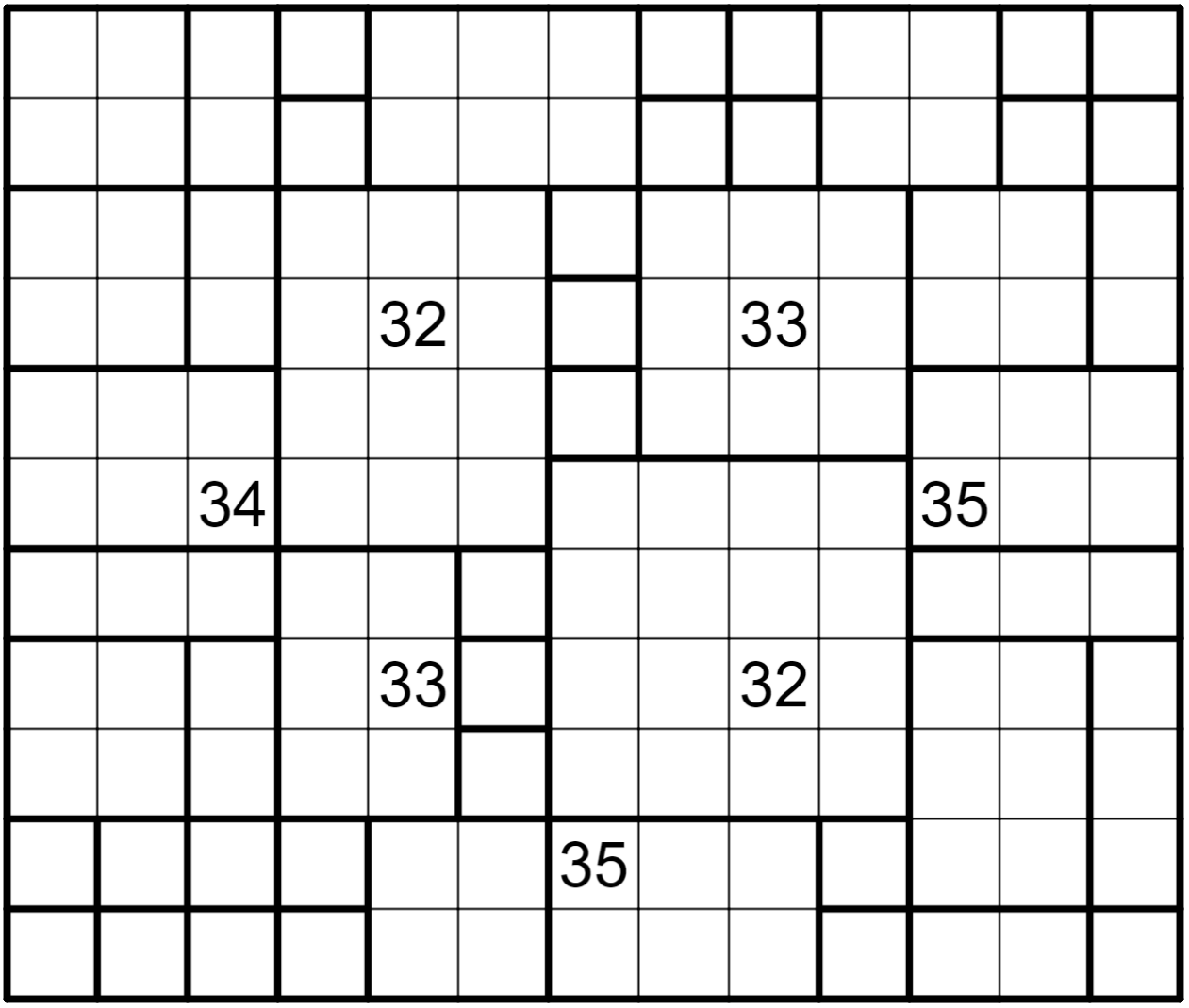

10. Regional Akari

ルール
・盤面のいくつかの白マスに白丸 (照明) を配置します。
・照明は自身から上下左右に直進する方向の白マスを照らします。
・全ての白マスは照らされていなければならず、照明同士はお互いに照らされあってはいけません。
・太線で区切られた各エリアには、照明がちょうど1つずつ配置されます。

例題



例題解答



①15点



11. インストラクションレス

ルール
このパズルでは、ルール文が明かされません。以下に、あるルールに従って作成された例題とその解答、およびいくつかの問題が示されます。そこからパズルのルールを推測し、問題を解きます。提示される例題および問題は、正しいルールに従って解いたとき答えがただ1つに定まります。

①50点

例題

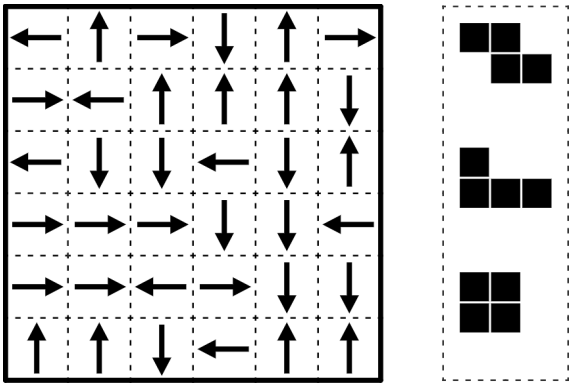

例題の解答

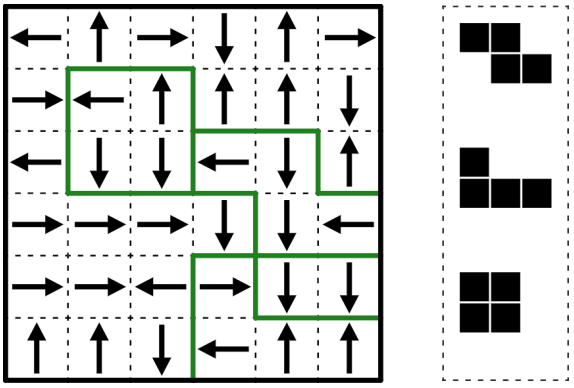

問題

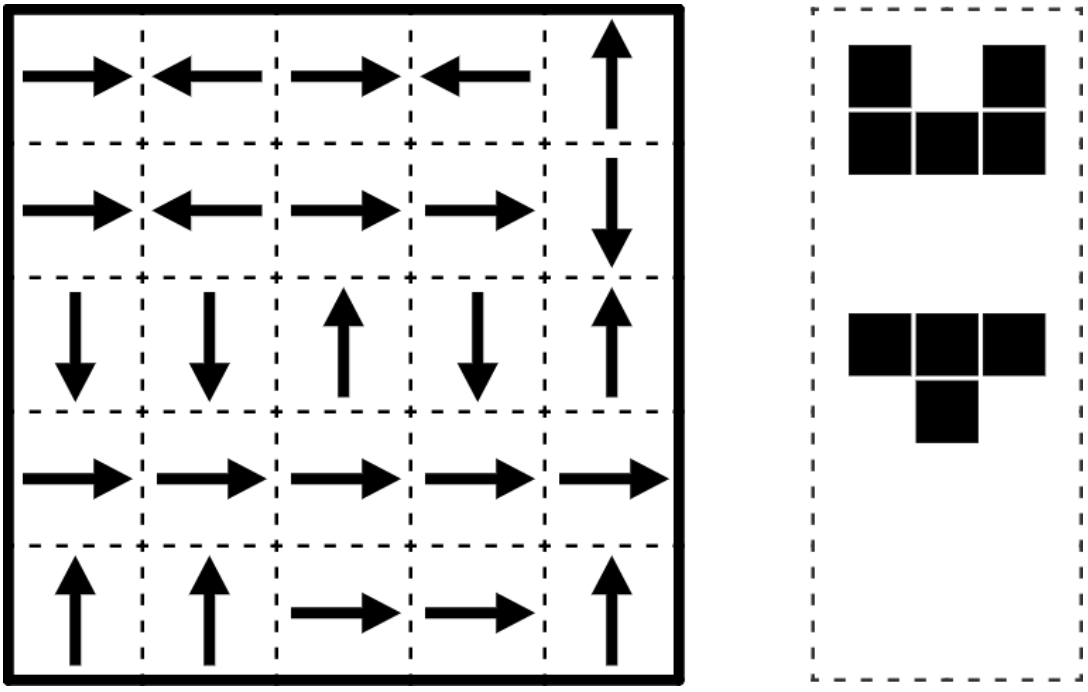

12. キラー数コロ改

ルール

・盤面のいくつかのマスに数字を入れます。
・盤面の数字は、その数字の入っているマスに隣り合うマスのうち、数字が入るマスの数を表しています。
・隣り合ったマスに同じ数字を入れてはいけません。
・すべての数字はひとつながりになっていなければなりません。
・点線の枠に書かれている数字は、枠の中に入る数字の合計を表しています。枠の中には同じ数字が入っても構いません。
・点線で囲まれた部分の中にも、数字がないマスがあっても構いません。

例題

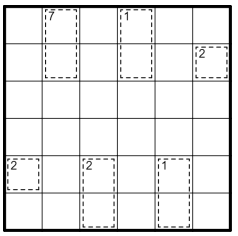

例題解答

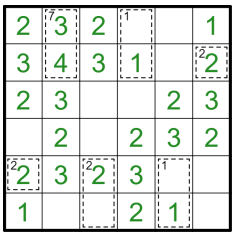

①70点

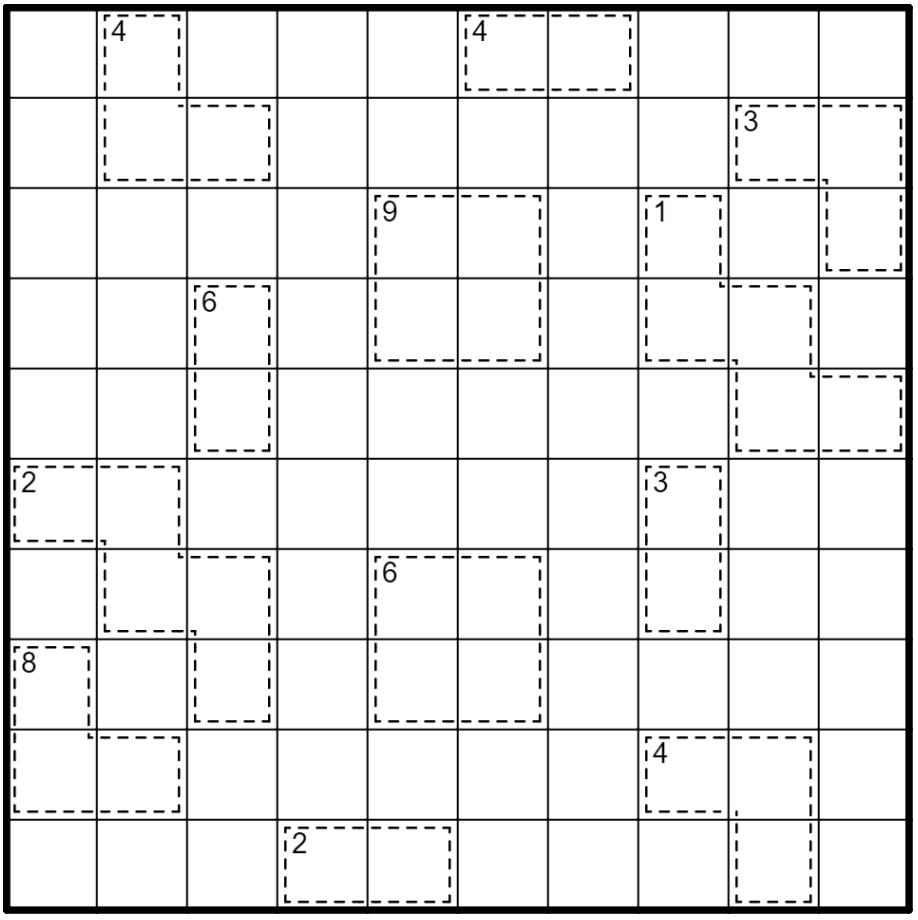

13. よみどおり

ルール

・灰色のマスに書かれている漢字同士をマスの中央を通る線で繋ぎます。
・線同士が交差したり重なったりしてはいけません。
・線を通過するひらがなを順に読むと、漢字2文字をその順につなげてできる熟語の読み方になります。ひらがなを読み飛ばしてはいけません。

例題

夜	ざ		桜
よ		く	ら
は	う	も	
葉	じ	み	紅

例題解答

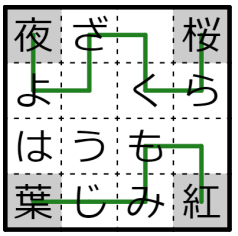

①20点

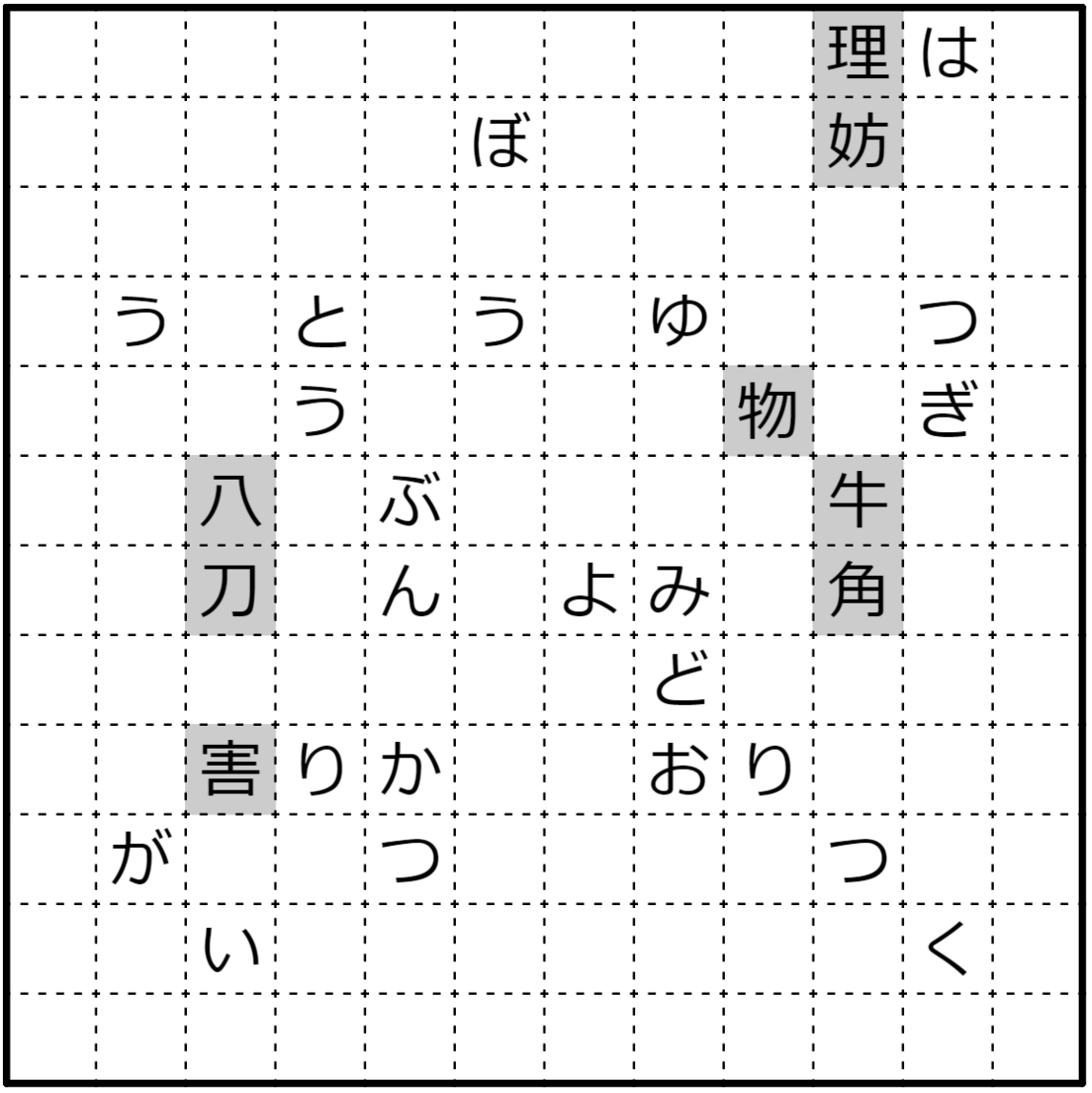

14. チマタグラム

ルール
・元の単語に1文字付け加え、並び替えたものが与えられます。
・元の単語を復元してください (付け加えた文字は記す必要はありません)。
・大文字を小文字に、また小文字を大文字にしてはいけません。

例題	例題解答
芋が千円 (いもがせんえん)	凱旋門 (がいせんもん)

テーマ「世界遺産」

①5点

恥じるマスター (はじるますたー)

答え＿＿＿＿＿＿＿＿＿＿＿＿＿＿＿＿

②5点

ランチは刺身か (らんちはさしみか)

答え＿＿＿＿＿＿＿＿＿＿＿＿＿＿＿＿

③5点

鬼ドンジャラキング (おにどんじゃらきんぐ)

答え＿＿＿＿＿＿＿＿＿＿＿＿＿＿＿＿

④5点

魔神靴下じゃい！ (まじんくつしたじゃい)

答え＿＿＿＿＿＿＿＿＿＿＿＿＿＿＿＿

⑤5点

あれ、鳥羽フリーグリーン (あれとばふりーぐりーん)

答え＿＿＿＿＿＿＿＿＿＿＿＿＿＿＿＿

⑥5点

「生徒、どうだ？ソーダ飲む？」「いる！」
(せいとどうだそーだのむいる)

答え＿＿＿＿＿＿＿＿＿＿＿＿＿＿＿＿